4º E.E. Teoría
Semana del 23 al 29 de Marzo

NOMBRE _____

1.- Clasifica e invierte estos intervalos:



_____

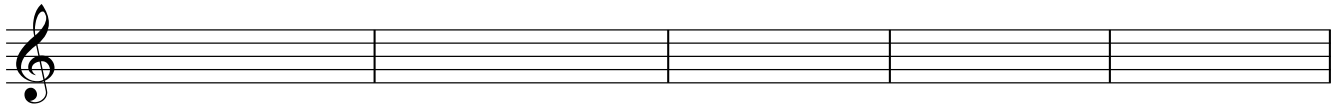

_____

2.- Dibuja la nota que falta a estos intervalos y luego inviértelos:



5ª justa asc. 4ª Justa desc. 7ª Mayor asc. 3ª Mayor desc. 2ª menor asc.

_____

3.- A qué tonalidades corresponden estas armaduras:



_____

_____

4.- Dibuja las armaduras de estas tonalidades:

Fa ♯ Mayor Do ♯ menor Si menor Re ♭ Mayor Fa Mayor

5.- Dibuja los cuatro tipos de Mi Mayor. Indica el número al que corresponde cada uno.

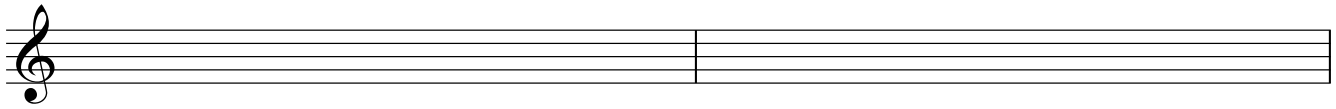

_____

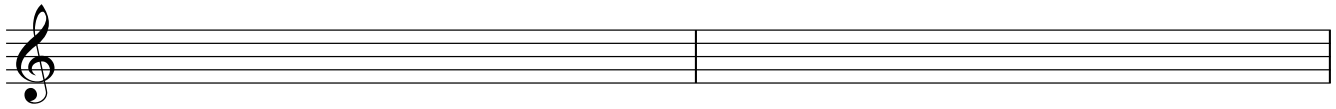

_____

Ana Madorrán©2020

Dibuja los cuatro tipos de Fa menor. Pon el nombre de cada uno de ellos.

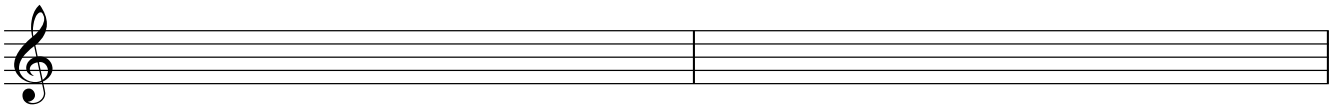

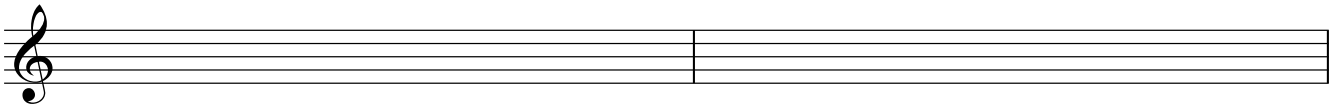

6.- Dibuja, nombra y clasifica estos acordes de Si ♭ Mayor:



7.- Construye estos acordes:



8.- Clasifica estos acordes:



9.- Completa estos compases con figuras y silencios:



10.- Escribe estas notas en clave de Fa en 4ª línea. Recuerda que deben ser unísonos:

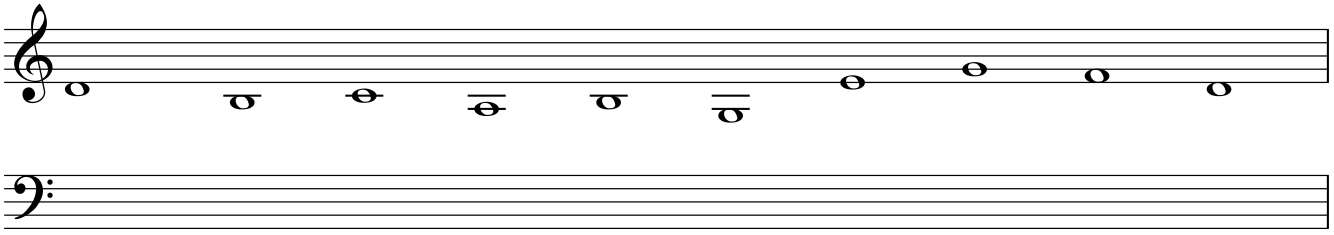

Indica la tonalidad y tipo de este fragmento:

Tonalidad:



Ana Madorrán©2020