Teoría 4º EE
Semana del 16 al 22 de Marzo

NOMBRE_____

1.-Clasifica e invierte estos intervalos:



_____

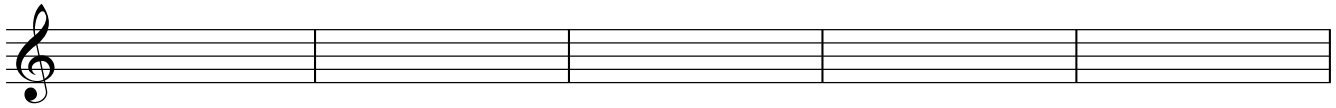

_____

2.- Dibuja la nota que falta a estos intervalos, y luego inviértelos:

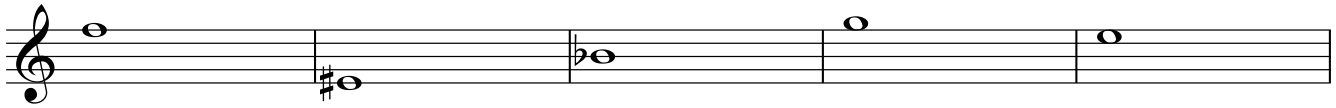

6ª Mayor desc. 7ª Mayor asc. 3ª menor asc. 2ª menor desc. 7ª menor desc.

_____

3.- A qué tonalidades corresponden estas armaduras:



_____

_____

4.- Dibuja las armaduras de estas tonalidades:



Fa menor Sol ♯ menor Fa ♯ Mayor SoL ♭ Mayor Mi Mayor

5.- Dibuja estas escalas:

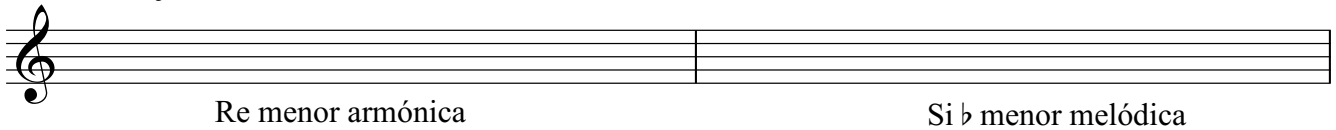

Re menor armónica Si ♭ menor melódica

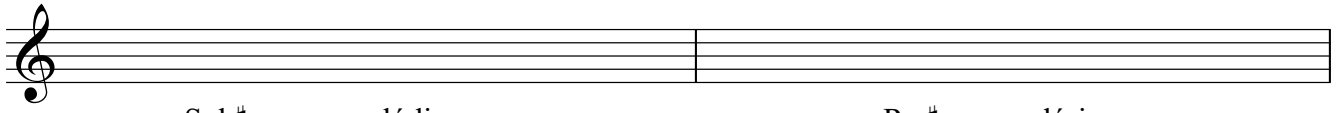

Sol ♯ menor melódica Re ♯ menor dórica

Ana Madorrán©2018

b.- Dibuja los cuatro tipos de Sol menor. Pon el nombre de cada uno de ellos.

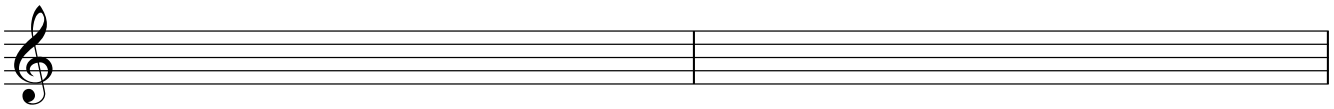

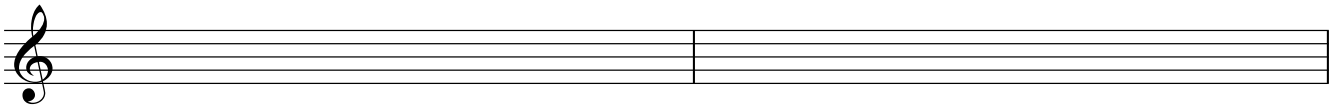

6.- Dibuja, nombra y clasifica los siguientes acordes de La Mayor:



7.- Construye estos acordes:



8.- Clasifica estos acordes:



9.- Completa estos compases con figuras y silencios:



10.- Escribe estas notas en clave de Fa en 4ª línea. Recuerda que deben ser unísonos:



Ana Madorrán©2018