Teoría 4º EE
Semana del 27 de abril al 3 de mayo

NOMBRE_____

1.-Clasifica e invierte estos intervalos:



_____

_____

2.- Dibuja la nota que falta a estos intervalos, y luego inviértelos:

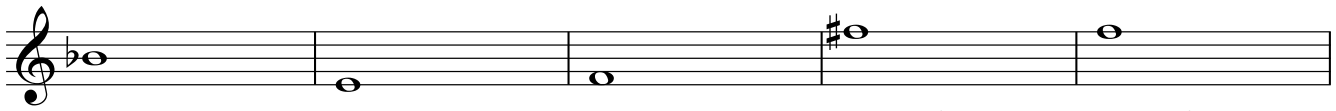

3ª Mayor asc. 6ª Mayor asc. 4ª Justa asc. 2ª menor desc. 5ª Justa desc.

_____

3.- A qué tonalidades corresponden estas armaduras:



_____

_____

4.- Dibuja las armaduras de estas tonalidades:



Sol Mayor Sol menor Mi Mayor Do menor Si Mayor

5.- Dibuja y nombra los cuatro tipos de Sol Mayor:



_____

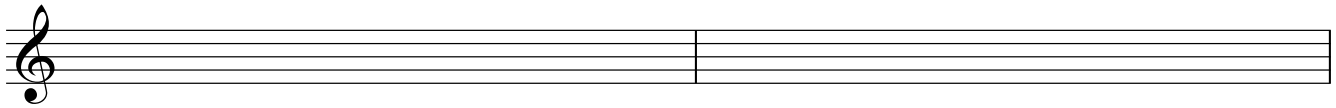

_____

Ana Madorrán©2018

b.- Dibuja los cuatro tipos de Sol ♯ menor. Pon el nombre de cada uno de ellos.

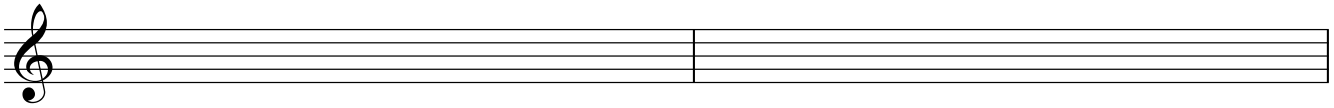

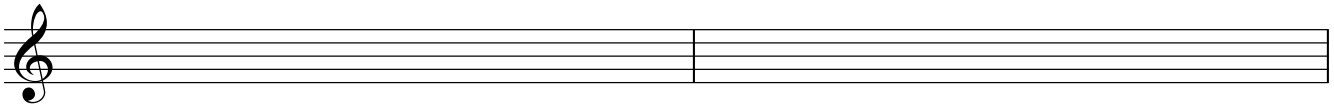

6.- Dibuja, nombra y clasifica los siguientes acordes de Sol menor armónica:

I III IV V VII



7.- Construye estos acordes:



P.M. P.m. 5ª Au. 5ª Dis. 7ª Dom.

8.- Clasifica estos acordes:



9.- Completa estos compases con figuras y silencios:



10.- Escribe estas notas en clave de Fa en 4ª línea. Recuerda que deben ser unísonos:



Indica la tonalidad y tipo de este fragmento:

Tonalidad:



Ana Madorrán©2020